Conselleria d'Educació
i Universitats
Institut d'Avaluació i Qualitat
del Sistema Educatiu

2026

Competència en matemàtiques a 4t d'EP: Guia de correcció Model 3

AVALUACIÓ DIAGNÒSTICA 2025-2026

IAQSE

Contingut

Guia de correcció de preguntes codificades 3
Part específica 1: Model 3 3
Estímul: **Els daus** 3
Pregunta 1 3
Pregunta 2 3
Pregunta 3 3
Pregunta 4 3
Part comuna 1 4
Estímul: **Activitats aquàtiques** 4
Pregunta 5 4
Pregunta 6 4
Pregunta 7 4
Pregunta 8 5
Pregunta 9 6
Pregunta 10 6
Part específica 2: Model 3 7
Estímul: **Seguint instruccions** 7
Pregunta 11 7
Pregunta 12 7
Pregunta 13 7
Pregunta 14 7
Part comuna 2 8
Estímul: **La pista de bàsquet** 8
Pregunta 15 8
Pregunta 16 8
Pregunta 17 9
Pregunta 18 9
Pregunta 19 9
Pregunta 20 10
Part específica 3: Model 3 11

Estímul: **El mosaic** 11
Pregunta 21 11
Pregunta 22 11
Pregunta 23 11
Pregunta 24 12

GUIA DE CORRECCIÓ DE PREGUNTES CODIFICADES

IMPORTANT: si hi ha cap opció de resposta que és correcta i no surt en aquests criteris, s'ha de considerar com a bona.

Part específica 1: Model 3

Estímul: **Els daus**

Pregunta 1

Ítem autocorregible, heu d'introduir la resposta al GESAVA.

Pregunta 2

Ítem autocorregible, heu d'introduir la resposta al GESAVA.

Pregunta 3

Observa el gràfic. **Explica** amb **paraules** com pots saber quina **suma** ha sortit **més vegades**.

Resposta correcta



La barra més alta correspon a la suma que ha sortit més vegades.

Codificació 0 – 1		
Codi	X	No contesta.
	1	Resposta correcta o raonament equivalent.
	0	Resposta incorrecta.

Pregunta 4

Ítem autocorregible, heu d'introduir la resposta al GESAVA.

Part comuna 1

Estímul: **Activitats aquàtiques**

Pregunta 5

Ítem autocorregible, heu d'introduir la resposta al GESAVA.

Pregunta 6

Calcula el **preu** de cada activitat **per alumne** i omple els buits.

Completa la frase amb l'**activitat aquàtica** i el **número** adequats.

Resposta correcta

L'activitat més cara és paddle surf, perquè costa 3 euros per alumne.

Codificació 0 – 1		
Codi	X	No contesta.
	1	Resposta correcta.
	0	Resposta incorrecta.

Pregunta 7

Ítem autocorregible, heu d'introduir la resposta al GESAVA.

Pregunta 8

Cada barca de vela pot portar 4 alumnes. Quantes **barques** es necessiten per als 20 alumnes que s'han apuntat a l'activitat?

Resposta correcta

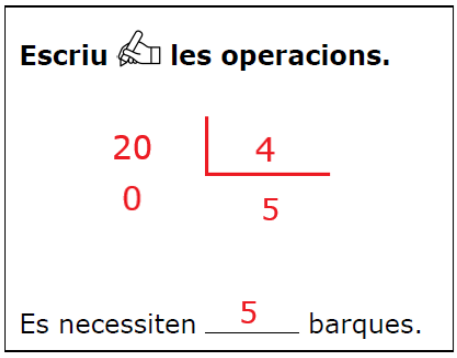

Codificació 0 – 1		
Codi	X	No contesta.
	1	Resposta correcta: escriu un procediment correcte i obté 5 com a resultat. Es considerarà correcta malgrat no escrigui la resposta explícita. Per exemple: 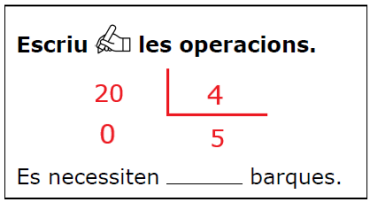
	0	Resposta incorrecta.

Pregunta 9

Hem demanat als alumnes de 4t A i 4t B quina activitat han triat. A les dues classes hi ha el mateix nombre d'alumnes.

Resposta correcta

	V	F
Hi ha més alumnes a 4t B que volen fer paddle surf que a 4t A.		X
A 4t A les activitats s'han triat de manera més equilibrada que a 4t B.	X	
Hi ha més alumnes a 4t B que volen fer piragua que a 4t A.	X	

Codificació 0 – 1		
Codi	X	No contesta.
	1	Resposta correcta: 3 encerts.
	0	Resposta incorrecta: 2, 1 o cap encert.

Pregunta 10

Ítem autocorregible, heu d'introduir la resposta al GESAVA.

Part específica 2: Model 3

Estímul: **Seguint instruccions**

Pregunta 11

Ítem autocorregible, heu d'introduir la resposta al GESAVA.

Pregunta 12

Ítem autocorregible, heu d'introduir la resposta al GESAVA.

Pregunta 13

Amb quin **instrument** mesuraries cada **magnitud**?

Uneix les columnes amb **fletxes**.

Resposta correcta

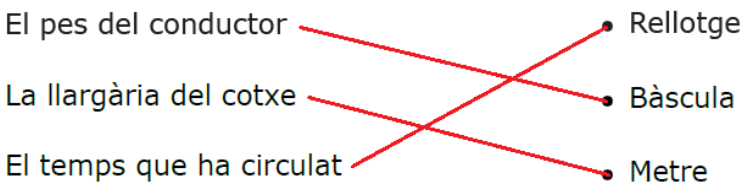

Codificació 0 – 1		
Codi	X	No contesta.
	1	Resposta correcta: 3 encerts.
	0	Resposta incorrecta: 2, 1 o cap encert.

Pregunta 14

Ítem autocorregible, heu d'introduir la resposta al GESAVA.

Part comuna 2

Estímul: **La pista de bàsquet**

Pregunta 15

Ítem autocorregible, heu d'introduir la resposta al GESAVA.

Pregunta 16

Completa les frases amb una de les **paraules** següents:

Resposta correcta



La pilota de bàsquet és a _____la dreta_____ de la línia marcada en negre.

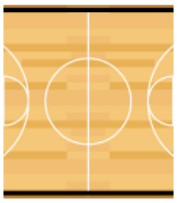

Les línies marcades en negre són _____paral·leles_____.

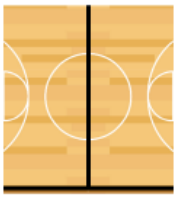

Les línies marcades en negre són _____perpendiculars_____.



Les línies marcades en negre són _____obliqües_____.

Codificació 0 – 1 – 2		
Codi	X	No contesta.
	2	Resposta correcta: 4 encerts.
	1	Resposta parcialment correcta: 3 o 2 encerts.
	0	Resposta incorrecta: 1 o cap encert.

Pregunta 17

Ítem autocorregible, heu d'introduir la resposta al GESAVA.

Pregunta 18

Relaciona cada **element** de la **circumferència** marcat en negre amb el seu nom.

Resposta correcta

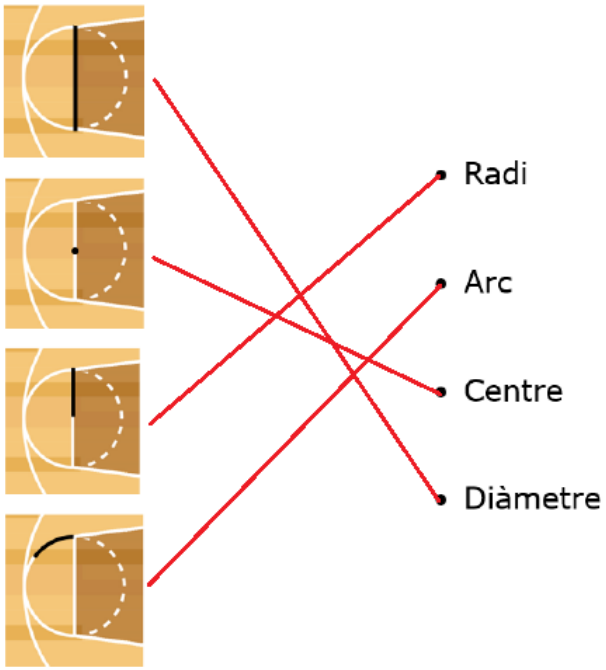

Codificació 0 – 1 – 2		
Codi	X	No contesta.
	2	Resposta correcta: 4 encerts.
	1	Resposta parcialment correcta: 3 o 2 encerts.
	0	Resposta incorrecta: 1 o cap encert.

Pregunta 19

Ítem autocorregible, heu d'introduir la resposta al GESAVA.

Pregunta 20

S'han pres les mesures següents a la pista:

Resposta correcta

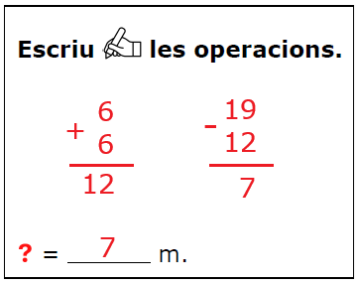

Codificació 0 – 1 – 2		
Codi	X	No contesta.
	2	Resposta correcta: escriu un procediment correcte i obté 7 com a resultat. Es considerarà correcta malgrat no escrigui la resposta explícita. Per exemple: 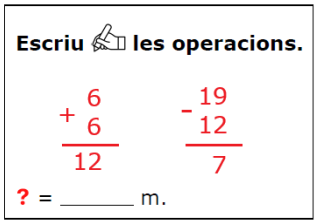
	1	Resposta parcialment correcta: un dels casos següents: • procediment correcte, però s'equivoca en el càlcul, • resultat correcte, però no escriu cap operació.
	0	Resposta incorrecta.

Part específica 3: Model 3

Estímul: **El mosaic**

Pregunta 21

Completa la frase amb **una** de les paraules següents:

Resposta correcta

La superfície que ocupen els quadrats blancs és igual que la superfície que ocupen els quadrats taronges.

Codificació 0 – 1		
Codi	X	No contesta.
	1	Resposta correcta.
	0	Resposta incorrecta.

Pregunta 22

Ítem autocorregible, heu d'introduir la resposta al GESAVA.

Pregunta 23

Tenint en compte l'eix de **simetria**, completa el dibuix.

Resposta correcta

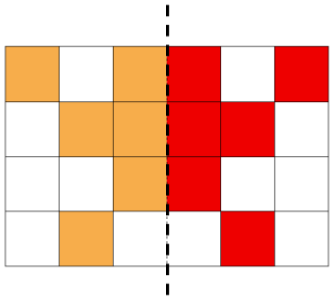

Codificació 0 – 1		
Codi	X	No contesta.
	1	Resposta correcta.
	0	Resposta incorrecta.

Pregunta 24

Amb 24 quadres hem pogut fer un mosaic de 6 x 4.

Resposta correcta

	Sí	No
8×3	X	
8×4		X
12×2	X	
6×2		X

Codificació 0 – 1 – 2		
Codi	X	No contesta.
	2	Resposta correcta: 4 encerts.
	1	Resposta parcialment correcta: 3 encerts.
	0	Resposta incorrecta: 2, 1 o cap encert.